Séquence 6 Maths

Un petit village résiste encore et toujours…

Astérix et Obélix chassent les sangliers autour du village.



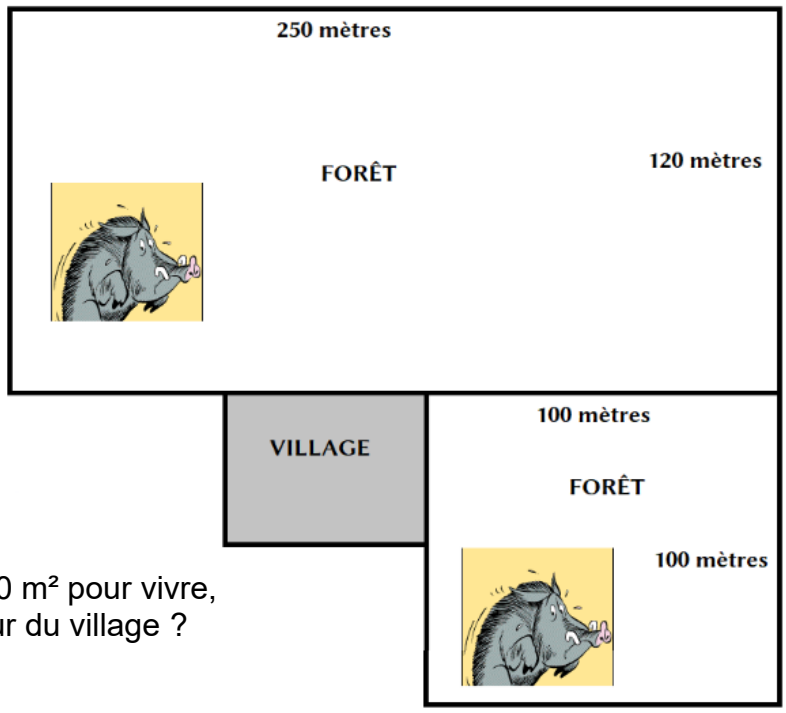

1 / Quelle est l'aire de la forêt ?

2 / Sachant qu'un sanglier a besoin de 50 m² pour vivre, combien de sangliers peuvent vivre autour du village ?

ATTAQUERONS VILLAGE XXI-X-CLV

JULIUS CAESAR

A quelle date aura lieu l'attaque ?

Quelle est la date d'aujourd'hui ?

I	II	III	IV	V	VI	VII	VIII	IX
1	2	3	4	5	6	7	8	9
X	XI	XII	XX	XXX	XL	L	LX	
10	11	12	20	30	40	50	60	
LXX	LXXX	XC	C	D	M			
70	80	90	100	500	1000			



Lors de l'attaque du village, les légionnaires se positionnent en formation « pointe ». Cette formation est un triangle équilatéral.
Représente ci-dessous la formation vue du ciel des légionnaires avec un côté de 6 cm.

Panoramix doit rapidement préparer sa potion. Aide-le en coloriant la fiole avec la bonne quantité de chaque ingrédient.

Il faut 0,2 litre de jus de citrouille (en orange).

Il faut 10/100 litre d'eau (en bleu).

Il faut 0,4 litre de jus d'oseille (en vert)

Il faut 0,200 litre de myrtilles sauvages concassées (en violet).

Le reste est l'ingrédient secret...(en jaune).

Donne la fraction et le nombre décimal représentant la quantité de l'ingrédient secret :

Victoire ! C'est l'heure du banquet !

Voici la table, calcules-en l'air e et le périmètre.