EVALUATION DIAGNOSTIQUE CE2

MATHEMATIQUES
Séquence N°1

EXERCICE 1

Champ : Les nombres	NO0106	Codage : 1 9 0
Compétence : Nommer, lire, écrire, représenter des nombres entiers.		

Écris les nombres dictés :

A _____ B _____ C _____ D _____ E _____ F _____

EXERCICE 2

Champ : Les nombres	NO0108	Codage : 1 9 0
Compétence : Interpréter les noms des nombres à l'aide des unités de numération et des écritures arithmétiques.		

Réponds aux questions suivantes :

a) Lisa a 18 bandes de 10 timbres et 5 timbres. Combien a-t-elle de timbres en tout ?

Lisa a …… timbres.

b) Combien de boites de fromage contenant 10 portions l'école de Jean Moulin doit-elle commander pour ses 314 élèves ?

L'école doit commander …… boites.

EXERCICE 3

Champ : Les nombres	NO0402	Codage :	1	9	0
Compétence : Comprendre et utiliser des nombres entiers pour dénombrer, ordonner, repérer, comparer.					

Range les nombres suivants du plus petit au plus grand :

314 - 134 - 34 - 431 - 413 – 43

Coche la bonne suite.

☐	431	413	314	134	43	34
☐	34	43	314	134	431	413
☐	34	43	134	314	431	413
☐	34	43	134	314	413	431

EXERCICE 4

Champ : Calcul	CA0205	Codage :	1	9	0
Compétence : Mémoriser des faits numériques et des procédures.					

Complète les additions.

7 + ... = 12	9 = 5 +.....	16 = 8 + ...
..... = 8 + 9	.... + 7 = 13	4 +.... = 14
2 + 2 + 2 + 2 + 2 = ...	.... = 5 + 5 + 5 + 5	.... + 4 = 10

EXERCICE 5

Champ : Calcul	CA0506	Codage :	1	9	0
	CA0510	Codage :	1	9	0
Compétence : Mettre en œuvre un algorithme de calcul posé pour la soustraction.					

Pose et effectue les opérations.

692 – 268 = CA0506

702 – 48 = CA0510

EXERCICE 6

Champ : Calcul	CA0311	Codage :	1	9	0
Compétence essentielle : Mémoriser des faits numériques.					

Pour chaque ligne, trouve l'intrus et barre-le.

A	5 X 4	2 X 10	3 X 7	4 X 5
B	4 X 3	2 X 6	6 X 2	6 X 3
C	4 X 4	2 X 8	6 X 3	8 X 2

EXERCICE 7

Champ : Calcul	CA0609	Codage :	1	4	9	0
Compétence : Mettre en œuvre un algorithme de calcul posé pour l'addition.						

Pose et effectue l'opération.

238 + 26 + 147 =

EXERCICE 8

Champ : Calcul	CA1005	Codage :	1	9	0
Compétence : résoudre des problèmes en utilisant des nombres entiers et le calcul					

Pour l'anniversaire de sa fille, maman a acheté un sachet de 24 oursons qu'elle distribuera aux amies de sa fille. Combien les 6 amies auront-elles d'oursons chacune si elle les partage de manière égale ?

Utilise le cadre pour tes recherches ou tes calculs. N'oublie pas d'écrire la réponse.

Recherches, calculs

Chaque amie aura _____ oursons.

EXERCICE 9

Champ : Géométrie	GE0303	Codage :	1	9	0
Compétence : Reconnaître, nommer, décrire, reproduire, construire quelques figures géométriques.					

Voici une figure que tu dois reproduire.

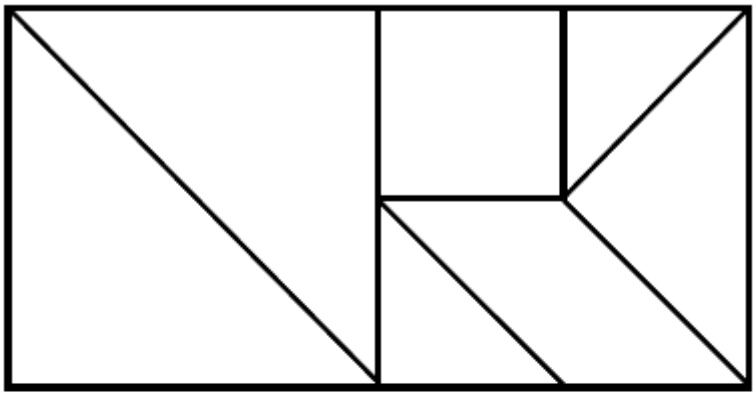

On a commencé. Termine la figure en utilisant ta règle.

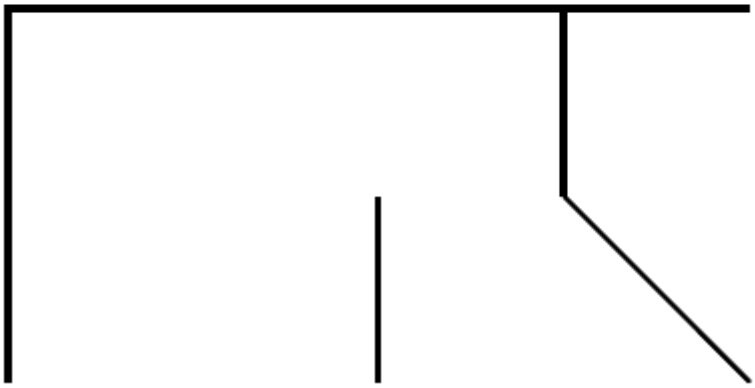

EXERCICE 10

Champ : Géométrie	GE0601	Codage :	1	9	0
Compétence : Reconnaître, nommer, décrire, reproduire, construire quelques figures géométriques.					

Observe les figures.

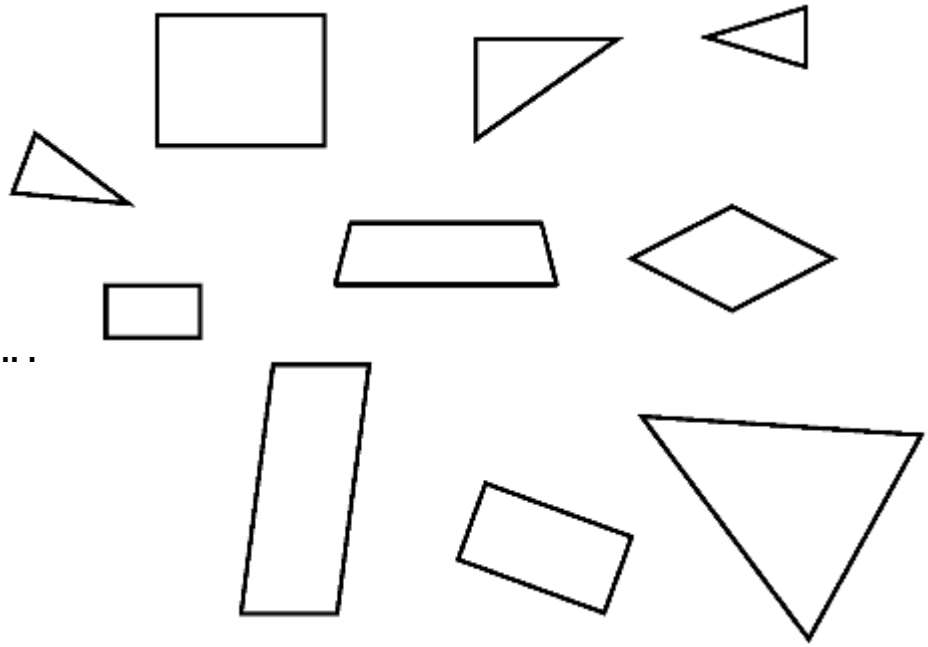

Compte les triangles parmi toutes les figures.

Le nombre de triangles est ..... .

EXERCICE 11

Champ : Grandeurs et mesure	GM0204 Codage : 1 9 0
Compétence : Comparer, estimer, mesurer des grandeurs	

<u>Écris dans la case le nom de l'unité qui convient</u> :

centimètres - mètres - kilomètres - grammes - kilogrammes - minutes - heures - euros - litres.

Le trajet en avion de Paris à New-York dure 7 [ ].

La distance de Paris à Brest est de 590 [ ].

Maman a acheté un filet contenant 5 [ ] de pommes de terre.